多品小学教育
视频·课件·习题·试卷
需要更多电子版可加我微信好友

人教版一年级上册数学 11-20 各数的认识练习试卷

姓名：_____ 年级：_____家长签名：_____

一、判断题

1．判断题．（对的打“√”，错的打“×”）

（1）2 个十是 12．（　）

（2）和 10 相邻的数是 9 和 20．（　）

（3）4 个一和 1 个十组成 14．（　）

（4）比 15 多 1 的数是 16．（　）

（5）18 比 10 多 8．（　）

2．比大小．对的在（　）内画√，错的在（）内画×，再填空．

例：

14 比 12	大(√)	(14)>(12)
	小(×)	(12)<(14)
(1)18 比 16	大(　)	(　)>(　)
	小(　)	(　)<(　)
(2)12 比 15	大(　)	(　)>(　)
	小(　)	(　)<(　)
(3)13 比 18	大(　)	(　)>(　)
	小(　)	(　)<(　)
(4)9 比 11	大(　)	(　)>(　)
	小(　)	(　)<(　)

二、填空题

1．两个两个地数，一共有（　）个．

2．五个五个地数，一共有（　）个．

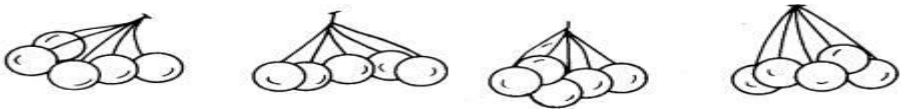

3．填空．

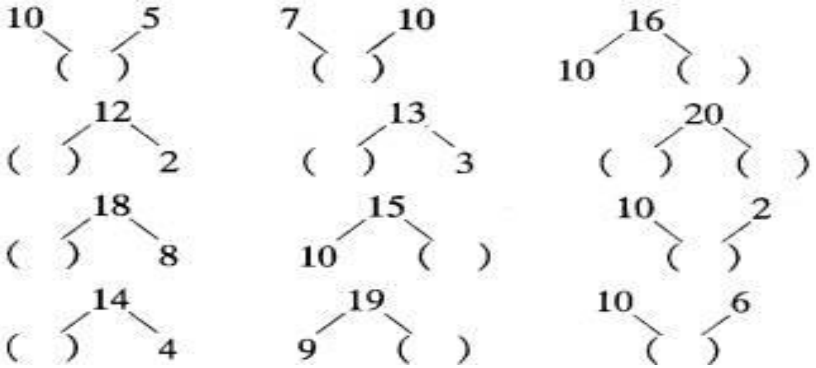

5．填空．

（1）16 里面有（　）个十和（　）个一．

（2）13 是由（　）个十和（　）个一组成的．

（3）1 个十和 8 个一组成的数是（　）．

（4）2 和 10 合起来是（　）．

（5）17 和 19 中间的数是（　）．

（6）18 里面去掉（　）还剩 10．

（7）2 个十是（　　）.

（8）10 加（　　）得 20.

（9）和 15 相邻的数是（　　）和（　　）.

（10）比 20 少 1 的数是（　　）.

6．在（　　）里填数.

（1） 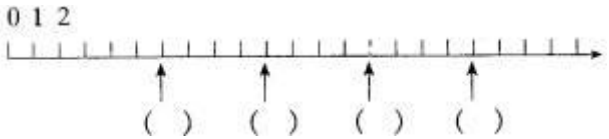

（2）按从大到小的顺序，把把下列的数排列.

19　4　11　18　20　8　7　14　15　6

7．在 8，12，19，6，14，20 这些数中

（1）左边数起，19 在第（　　）个.

（2）从右边数，14 在第（　　）个.

（3）和 6 相邻的两个数是（　　）和（　　）.

（4）在这些数中最大数是（　　），最小数是（　　）.

8．看清楚后，想一想，再往下写.

（1）3、6、9、（　　）、（　　）、（　　）.

（2）19、17、15、（　　）、（　　）、（　　）、（　　）、（　　）、（　　）、（　　）.

（3）20、16、12、（　　）、（　　）、（　　）.

（4）5、10、（　　）、20.

9．看图填空.

（1）

（2） 

10．填“>”、“<”或“＝”.

（1）10＋1（　　）10　　（2）3＋10（　　）13

（3）14（）2＋10　　（4）17－11（）10

（5）15－10（　　）6　　（6）9（）12－2

（7）6＋4（　　）10　　（8）9＋1＋5（　　）16

三、计算题

1．请把得数相等的算式连上线。

（一）		（二）	
17－7	9＋10	12－10	2＋8
10＋9	4＋10	19－9	10－2
0＋15	16－1	1＋10	9－7
10＋4	20－10	18－10	10＋1

2．计算。

（1）16－6＋4＝　　（2）9＋1－10＝

（3）3＋4＋10＝　　（4）20－10＋7＝

（5）17－10＋5＝　　（6）10＋6－10＝

（7）15－5－4＝　　（8）13－3＋0＝

（9）16－10＋5＝　　（10）14－10＋7＝

多品小学教育
视频·课件·习题·试卷
需要更多电子版可加我微信好友

资料大礼包

课件、教案、习题、试卷
重点、难点、考点全都有
而且还是电子版

打开微信扫一扫即可领取

不想每次到处找资料？建议关注上面公众号。

张老师微信

微信全天在线，你有任何问题都可以加我。免费为你解答在学习、教育， 上的各种难题。

朋友圈每天都会更新习题、试卷、知识点汇总资料。很多老师和孩子爸妈都在关注。

你若能来，我会更高兴。

微信扫一扫添加好友

一辈子，一件事。
专研小学教育。

资料电脑下载地址：www.duopin.cn